الجمهورية الجزائرية الديمقراطية الشعبية

وزارة التربية الوطنية — الديوان الوطني للامتحانات والمسابقات

امتحان شهادة بكالوريا التعليم الثانوي — دورة: جوان 2009

الشعبة : آداب وفلسفة

اختبار في مادة : التاريخ والجغرافيا — المدة : 04 ساعات ونصف

على المترشح أن يختار أحد الموضوعين التاليين

الموضوع الأول : (20 نقطة)

التاريخ :

الجزء الأول:(06 نقاط)

" حقا لقد تراجع الاستعمار القديم في عدة جهات و جبهات لكنه في نفس الوقت يمد نفوذه تحت صور أخرى في العالم، ويعمل على تأمين سيطرته على ثروات الشعوب النامية و مواردها.

إن المهام الملقاة على دول عدم الانحياز تتمثل حسب رأينا في ضمان استقلالها الوطني و تحقيق تنميتها لاستكمال هذا الاستقلال و تعزيزه و مناصرة حركات التحرر، ومصارعة الصهيونية و التمييز العنصري....و جميع مظاهر الاستغلال و الاستعمار الجديد و الامبريالية..."

مقتطفات من خطاب الرئيس هواري بومدين بمناسبة افتتاح المؤتمر الرابع لحركة عدم الانحياز المنعقد بالجزائر مابين 5و9 سبتمبر 1973.

1- حدد مفهوم المصطلحات التي تحتها خط.

2- عرف بالشخصيات التالية:

- ميخائيل غورباتشوف - مانديس فرانس - رونالد ريغن - محمد بوضياف.

3 - أكمل جدول الأحداث:

الحدث	تاريخه
تقسيم كوريا	
	23 مارس 1954
مشروع مارشال	
	06 أكتوبر 1947

4- على خريطة الجزائر المرفقة وقع الولايات التاريخية المنبثقة عن مؤتمر الصومام :

الجزء الثاني: (04 نقاط)

أعطى مؤتمر الصومام 20 أوت 1956 محتوى للثورة ووضعها في مسارها الحقيقي وقادها نحو النصر

المطلـــــوب : انطلاقا من الفقرة واعتمادا على ما درست ،أكتب مقالا تاريخيا تبين فيه :

1- الهيئات المنبثقة عن المؤتمر .

2- استراتيجية الثورة في مواجهة الاستعمار في المجال الخارجي بعد المؤتمر .

الجغرافيا:

الجزء الأول: (06 نقاط)

1- حدد مفهوم المصطلحات التالية:

*- القروض *- الاستقطاب * - الموارد المتجددة *- الأسواق العالمية.

2- إليك جدولا لتطور إنتاج الصلب بالو.م.أ و اليابان من 1950 إلى 2006:

الوحدة: مليون طن.

البلد	1950	1974	1982	1990	1998	1999	2000	2006
الو.م.أ	100	132	67	88.6	98.6	97.2	101.5	98.6
اليابان	94	100	98	110	93.3	94	106.4	116.2

المصدر: الصورة الاقتصادية للعالم 2007.

المطلوب: مثل إنتاج البلدين بمنحنيين بيانيين في نفس المعلم بمقياس:

1 سم ← 10 مليون طن.

1 سم ← 5 سنوات.

3- على خريطة أوروبا المرفقة، حدد الأقاليم الصناعية التالية: ألبو - الروهر - باريس - لندن.

4- إليك جدولا لنسبة النمو الاقتصادي في بعض دول العالمين المتقدم والمتخلف سنة 2002:

البلد	نسبة النمو %	البلد	نسبة النمو %
الو.م.أ	4.4	الجزائر	5.3
اليابان	2.6	الهند	7.3
ألمانيا	1.7	البرازيل	5.2

المصدر: حالة العالم 2006

المطلوب: حلل معطيات الجدول.

الجزء الثاني: 04 نقاط

يمتلك العالم المتخلف ثروات متنوعة وطاقات بشرية هائلة ،إلا أنه يعاني التخلف في شتى المجالات .

المطلـــوب : انطلاقا من الفقرة واعتمادا على ما درست ،أكتب موضوعا جغرافيا تبرز فيه :

1 مظاهر التخلف باعتماد مؤشرات اقتصادية

2 حلولا للخروج من دائرة التخلف .

الموضوع الثاني : (20 نقطة)

التاريخ:

الجزء الأول: (06 نقاط)

1- حدد مفهوم المصطلحات التالية :

- الستار الحديدي - الامبريالية - التحرر السياسي - النظام الدولي الجديد.

2- عرف بالشخصيات التالية:

- جورج مارشال - نيكيتا خروتشوف - جوزيف بروز تيتو - هواري بومدين.

3- أكمل جدول الأحداث:

الحدث	تاريخه
قيام هيئة الأمم المتحدة	
	1955/08/20
مبدأ ترومان	
	25 جانفي 1949

4- على خريطة العالم المرفقة وقع أربع أزمات للحرب الباردة على أن تكون واحدة في كل قارة

الجزء الثاني: (04 نقاط)

يرى البعض أن لجوء فرنسا للتفاوض مع قادة الثورة الجزائرية كان خيارا استراتيجيا، في حين يرى البعض الآخر أنه كان ضرورة فرضتها الضربات العنيفة التي تلقتها على يد الثورة الجزائرية.

المطلـــوب : انطلاقا من الفقرة واعتمادا على ما درست ،أكتب مقالا تاريخيا تبرز فيه :

1 – مبادئ جبهة التحرير الوطني في التفاوض .

2– أهداف فرنسا من التفاوض .

الجغرافيا:

الجزء الأول: (06 نقاط)

1– – حدد مفهوم المصطلحات التالية :

– التنمية البشرية – التهيئة الإقليمية – عالم الشمال – الاستقطاب.

2– استخلص من الجدول التالي معايير تصنيف الدولتين وفق مؤشر التنمية البشرية:

البلد	المساحة	عدد السكان	معدل الحياة	نسبة الأمية	الدخل الوطني الخام	الدخل الفردي الخام
و.م.أ	9.3 م. كلم2	298.5 م.ن	78 سنة	0.5 %	11712 مليار دولار	31872 دولار
الجزائر	2.3 م.كلم2	33 م.ن	73 سنة	30 %	85 مليار دولار	2620 دولار

المصدر: الصورة الاقتصادية العالمية 2004.

3– على خريطة شرق وجنوب شرق آسيا وقع دولتين (02) من التينينات و دولتين (02) من النمور الأسيوية .

الجزء الثاني: 04 نقاط

تتميز الولايات المتحدة الأمريكية بوزنها الاقتصادي والديمغرافي والدور الذي تلعبه في الفضاء العالمي .

المطلـــوب : انطلاقا من الفقرة واعتمادا على ما درست ،أكتب موضوعا جغرافيا تبين فيه :

1– مظاهر الهيمنة الاقتصادية الأمريكية على العالم .

2– أثر الهيمنة الأمريكية على الاقتصاد العالمي .

المرفقـات :

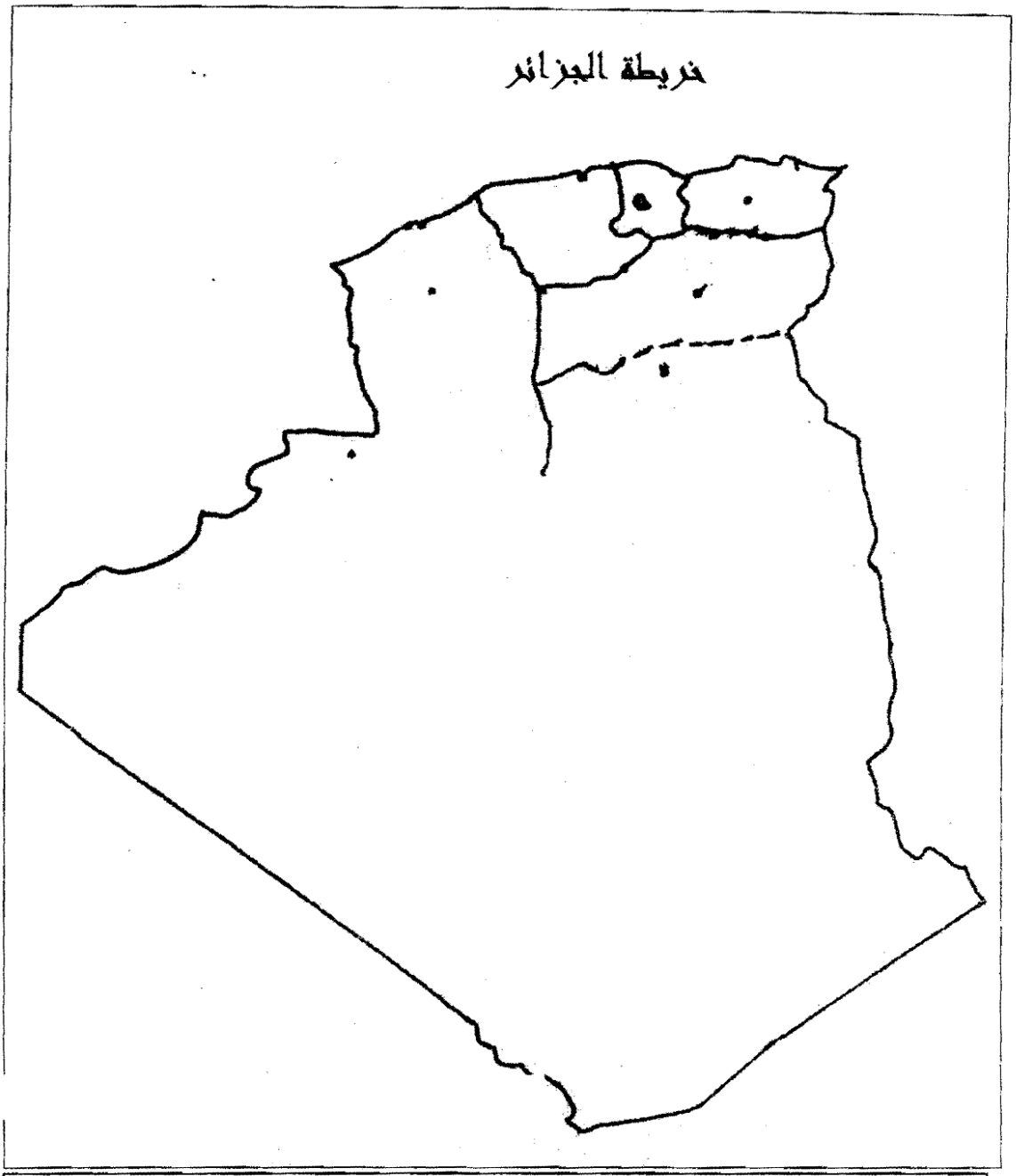

ينجز العمل المطلوب على الخريطة المرفقة وتعاد مع أوراق الإجابة

خريطـــة أوربا

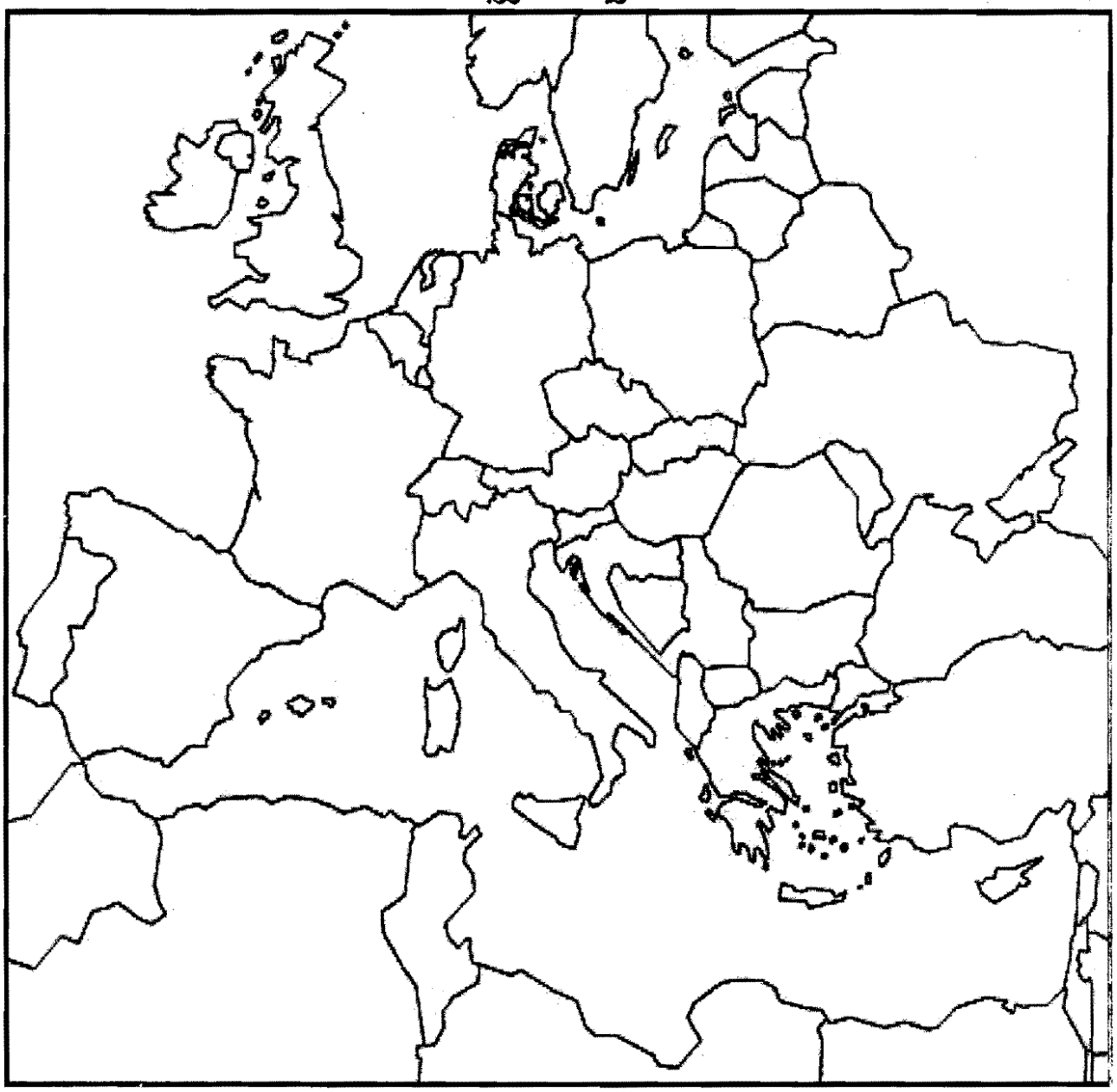

ينجز العمل المطلوب على الخريطة المرفقة وتعاد مع أوراق الإجابة

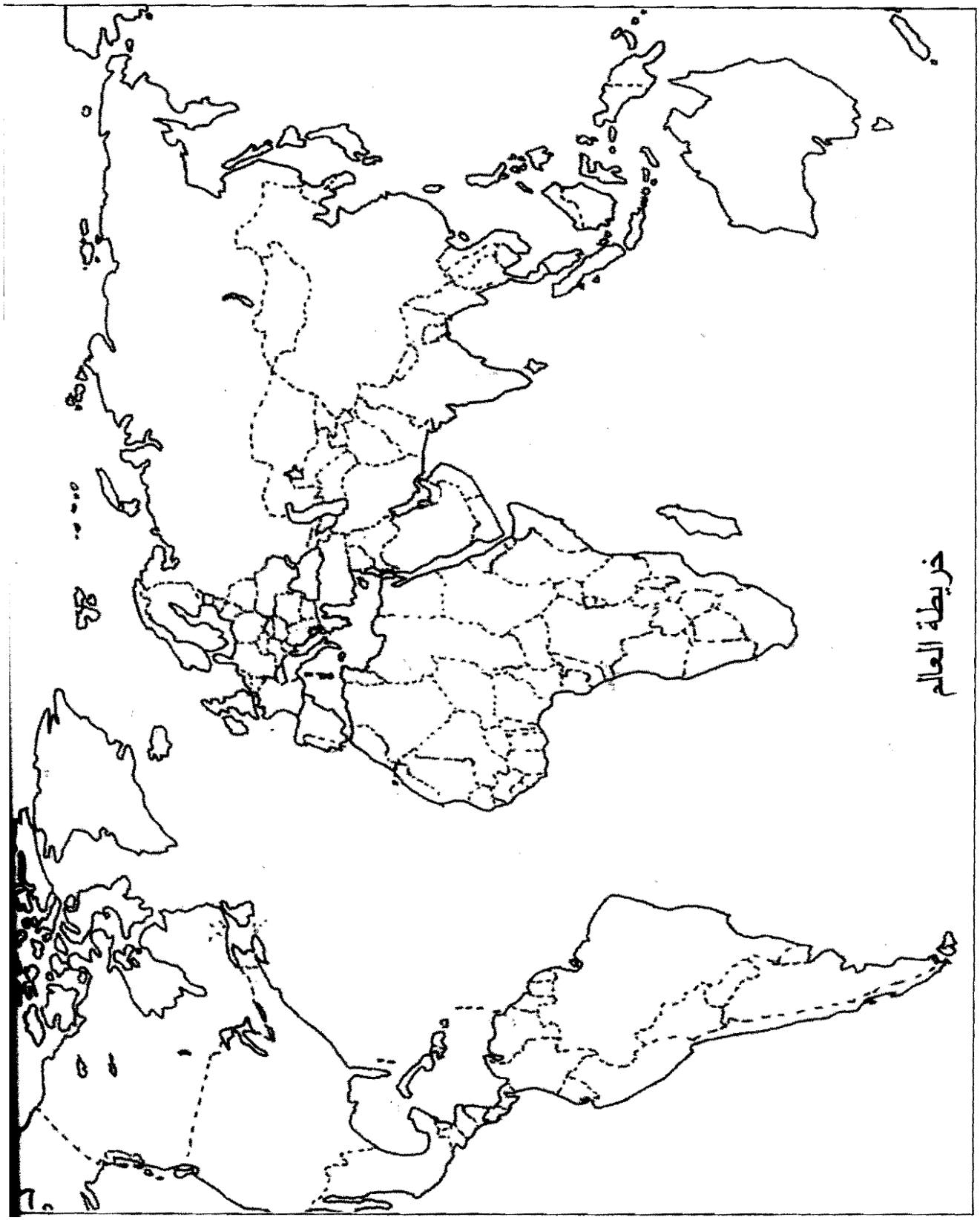

ينجز العمل المطلوب على الخريطة المرفقة وتعاد مع أوراق الإجابة

خريطة شرق وجنوب شرق آسيا

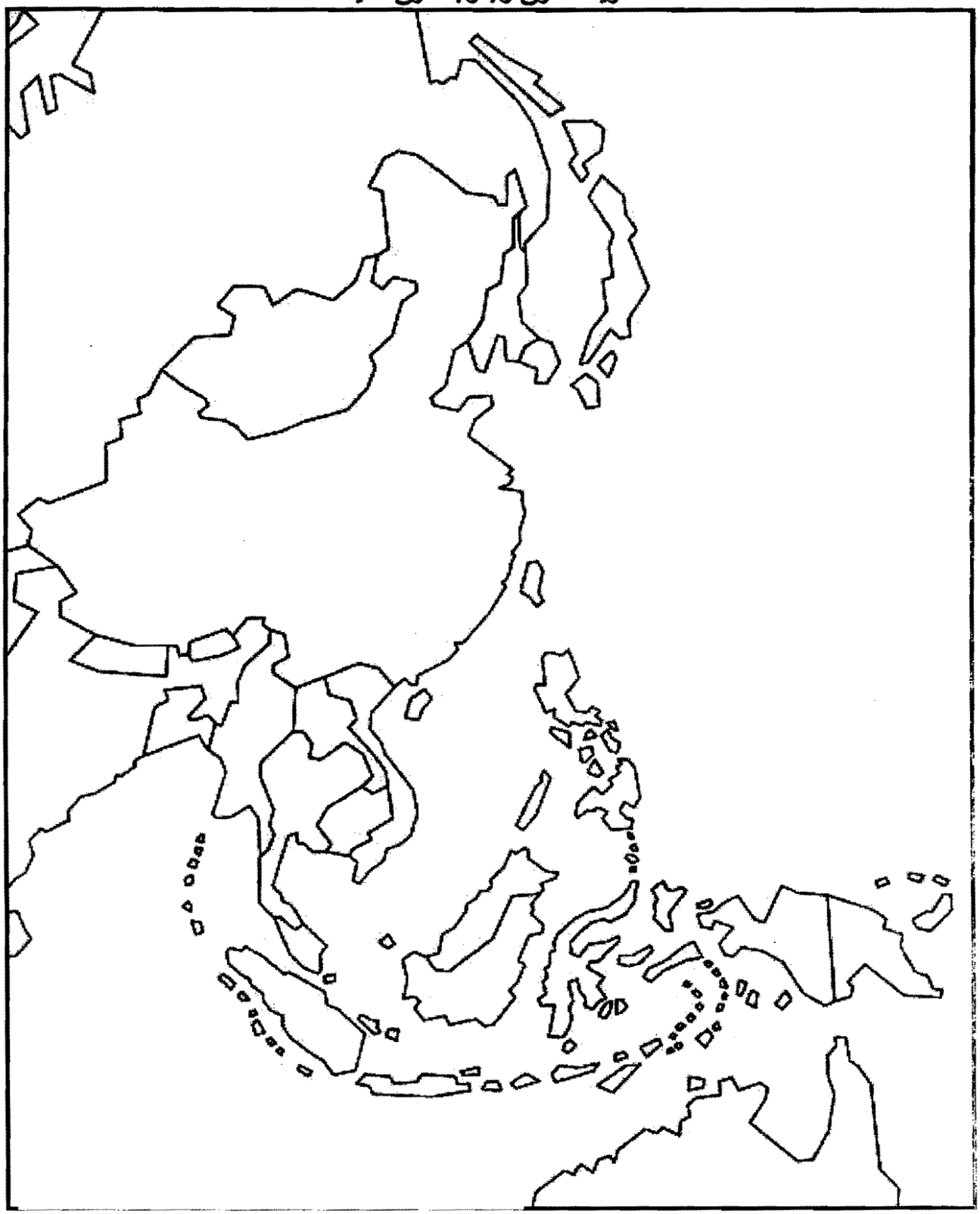

ينجز العمل المطلوب على الخريطة المرفقة وتعاد مع أوراق الإجابة

الإجابة النموذجية وسلم التنقيط لامتحان شهادة البكالوريا دورة 2009
المادة : تاريخ وجغرافيا الشعبة: آداب وفلسفة

الإجابة النموذجية وسلم التنقيط

محاور الموضوع	عناصر الإجابة	العلامة مجزأة	العلامة المجموع
	الموضـــــوع الأول :		
	*- تاريخ - الجزء الأول		
1- مفهوم المصطلحات	*- عدم الانحياز : سياسة انتهجت من طرف الدول المستقلة بعد الحرب العالمية الثانية ،معناها عدم الانضمام لأي من المعسكرين المتصارعين ، ظهرت رسميا في مؤتمر بلغراد1961 .	0.5	
	*- الصهيونية : حركة قومية عنصرية تعمل على لم شمل اليهود واتخاذ فلسطين وطنا قوميا لهم ،ظهرت في مؤتمر بازل 1897 .	0.50	
	*- الاستعمار الجديد : أسلوب جديد اتبعته الدول المتقدمة بهدف إعادة فرض الهيمنة بشتى الوسائل على دول العالم الثالث المستقلة حديثا (الضغط الاقتصادي ، المنظمات غير الحكومية والشركات متعددة الجنسيات)	0.50	06
	*- الامبريالية : لون من ألوان الاستعمار الجديد ،تعني سيطرة دولة على دولة أو دول أخرى ،وقد تكون السيطرة اقتصادية ،مالية وثقافية دون القضاء على النظام السياسي للدولة الخاضعة .	0.50	
2- التعريف بالشخصيات:	*- غورباتشوف : رئيس الاتحاد السوفياتي 1985-1991 ،مهندس الإصلاحات (البريسترويكا والغلاسنوست)،كان وراء إنهاء صراع الحرب الباردة مع المعسكر الرأسمالي سنة 1989 .	0.50	
	*- مانديس فرانس : محامي فرنسي ورئيس وزراء فرنسا بين 1954-1955 .	0.50	
	*- رونالد ريغن : 1911-2004 ،رئيس الولايات المتحدة الأمريكية 1981-1989 ،متشدد في علاقاته مع الاتحاد السوفياتي ، صاحب مشروع حرب النجوم .	0.50	
	*- محمد بوضياف 1919-1992 ،مناضل حزب الشعب /حركة الانتصار للحريات الديمقراطية ،عضو المنظمة الخاصة ومجموعة 22 منسق مجموعة الستة عضو بارز في قيادة الثورة ،رئيس الدولة الجزائرية 1992	0.50	

محاور الموضوع	عناصر الإجابة	العلامة مجزأة	العلامة المجموع
3- جدول الأحـــداث :	- تقسيم كوريا : 1947/10/10 .	0.25	
	- تأسيس اللجنة الثورية للوحدة والعمل :1954/03/23 .	0.25	
	- مشروع مارشال : 1947/06/05 .	0.25	
	- تأسيس الكومنفورم : 1947/10/06 .	0.25	
4- التوقيع على الخريطة	- الإنجاز :	0.50	
	- العنوان :	0.25	
	- المفتاح :	0.25	
مقدمـــة	الجزء الثاني : مؤتمر الصومام بين التقييم والتنظيم	0.5	
العـــــرض	1- الهيئات المنبثقة عن المؤتمر : - المجلس الوطني للثورة (المؤسسة التشريعية) .	0.50	04
	- لجنة التنسيق والتنفيذ (المؤسسة التنفيذية) .	0.50	
	- جيش التحرير الوطني (المؤسسة العسكرية) .	0.50	
	2- استرتيجية الثورة في مواجهة الاستعمار خارجيا : أ ــ عسكريا :		
	- نقل الثورة إلى الأراضي الفرنسية .	0.25	
	- البحث عن مصادر التموين بالسلاح .	0.25	
	ب ــ دبلوماسيا :		
	- تدويل القضية الجزائرية .	0.50	
	- تأمين مصادر التمويل .	0.25	
	- مواجهة الحملات الدعائية والحرب النفسية والإعلامية الفرنسية .	0.25	
الخاتمـــة	مؤتمر الصومام أرسى قواعد الدولة الجزائرية الحديثة .	0.5	
1- مفهوم المصطلحات :	*- جغرافيـــــــا - الجزء الأول *- القروض : استدانة مبالغ مالية من البنوك والمؤسسات المالية لآجال محددة مقابل نسبة من الفوائد .	0.50	
	*- الاستقطاب : مجموعة من العلاقات المتعددة والمتنوعة بين المدينة المركز أو القطب وجزء من المجال تقوم فيه المدينة المركز أو القطب بتوفير جملة من الخدمات .	0.50	
	*- الموارد المتجددة : الموارد الموجودة في الطبيعة غير قابلة للنفاذ تتجدد بحكم قوانين الطبيعة (الطاقة الشمسية ،الريحية ،الماء ...الخ) .	0.50	
	*- الأسواق العالمية : مناطق التبادل التجاري تعرف حركة كثيفة في الاستيراد والتصدير ومختلف الأنشطة التجارية	0.50	

72

محاور الموضوع	عناصر الإجابة	العلامة مجزأة	العلامة المجموع
2- التمثيل البياني :	-الإنجاز : - المقياس : - العنوان : - المفتاح :	1.25 0.25 0.25 0.25	
3- التوقيع على الخريطة	-الإنجاز : - العنوان : - المفتاح :	0.75 0.25 0.25	06
4- تحليل معطيات الجدول	- التباين في نسب النمو الاقتصادي بين العالم المتقدم والعالم المتخلف - نسبة النمو في العالم المتخلف لا تعكس التطور الحقيقي . - العالم المتقدم منتج للثروة والعالم المتخلف مستهلك لها وريعي .	0.25 0.25 0.25	
	الجزء الثاني :		
مقدمـــــة :	العالم المتخلف بين وفرة الإمكانات ومرارة الواقع .	0.50	
العـــــــرض	1- مظاهر التخلف : - الناتج الوطني الخام (يضم 80 %من سكان العالم ولا ينتج سوى 20 % من الثروة العالمية). - سوء توزيع اليد العاملة على القطاعات (ارتفاعها في القطاع الأول والثالث وانخفاضها في القطاع الثاني) . - الهياكل القاعدية (صناعة استخراجية ،ضعف نصيب الفرد ،عدم تكافؤ بين السكان والإنتاج .. الخ)	0.50 0.50 0.50	04
	2-الحلول : - حسن استغلال الموارد (طبيعية ،بشرية ومادية) . - اعتماد إستراتيجية اقتصادية واقعية . - اعتماد العصرنة والتحديث .	0.50 0.50 0.50	
الخاتمـــــة	العالم المتخلف أمام تحديات كبرى للخروج من دائرة التخلف .	0.50	

73

محاور الموضوع	عناصر الإجابة	العلامة	
		مجزأة	المجموع

خريطـة الولايات التاريخية المنبثقة عن مؤتمر الصومام 1956

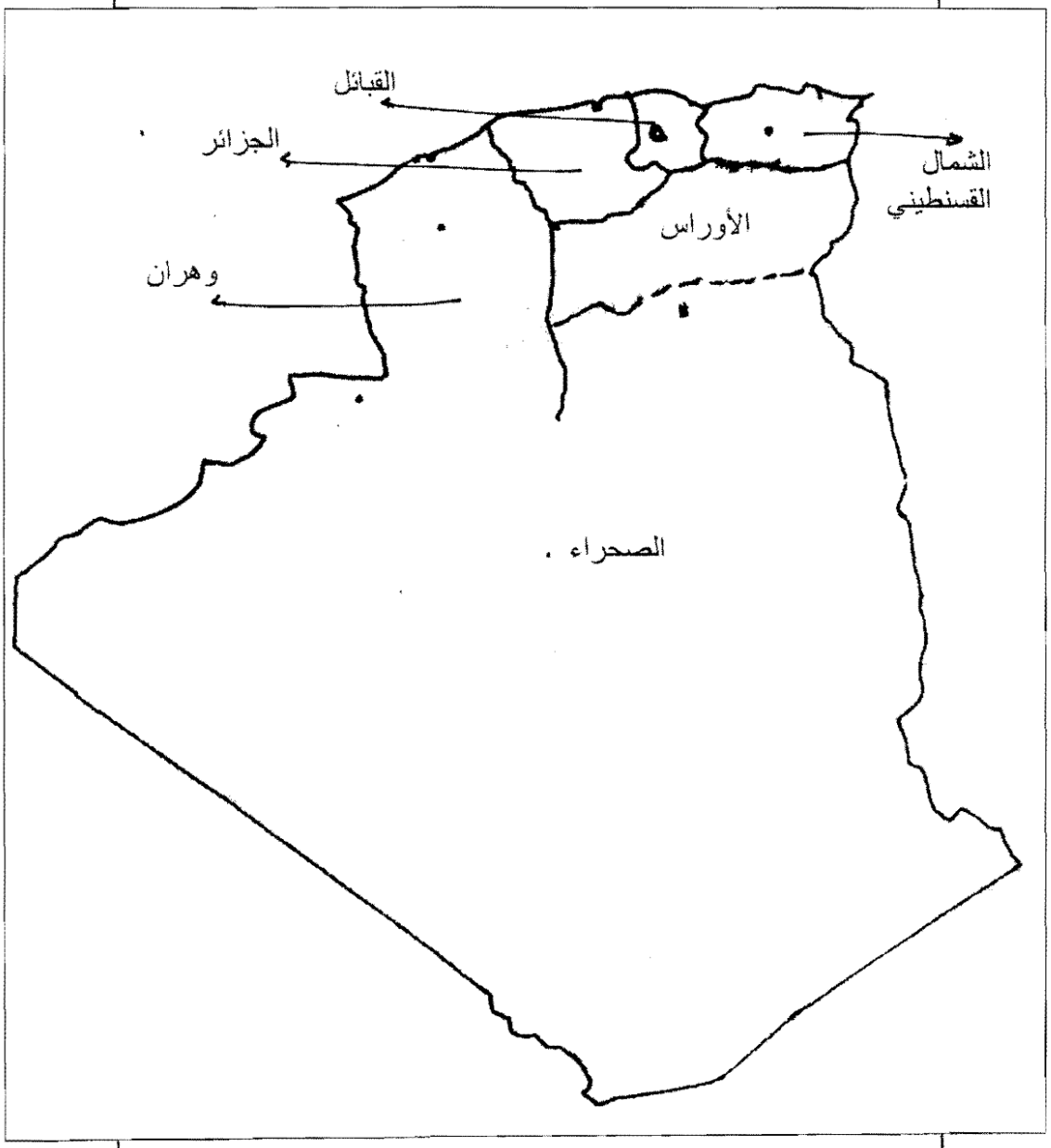

74

محاور الموضوع	عناصر الإجابة	العلامة	
		مجزأة	المجموع
	تطور إنتاج الصلب في الولايات المتحدة الأمريكية واليابان بين 1950-2006		

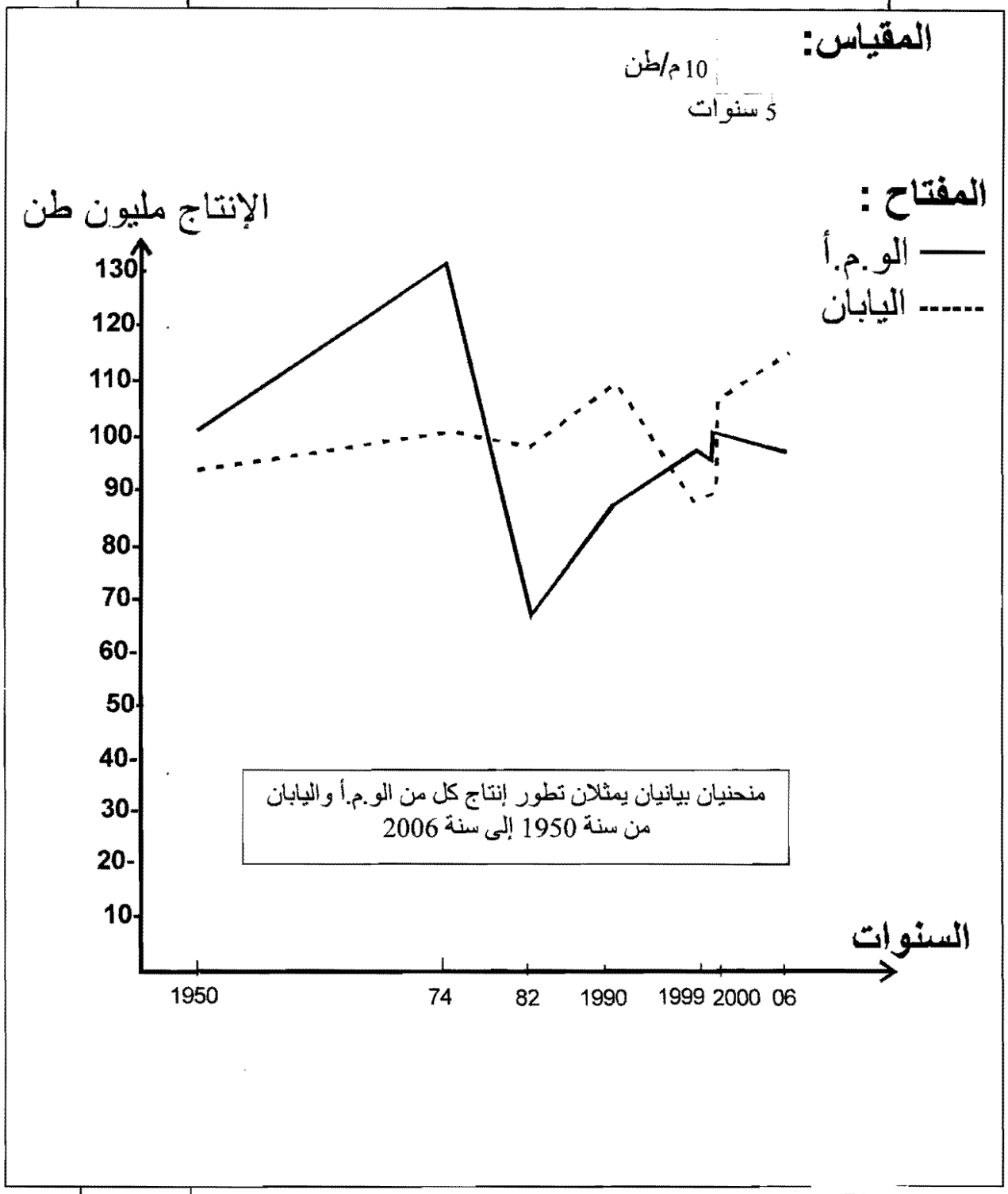

75

محاور الموضوع	عناصر الإجابة	العلامة	
		مجزأة	المجموع
	خريطـــــة بعض الأقاليم الصناعية بأوربا		

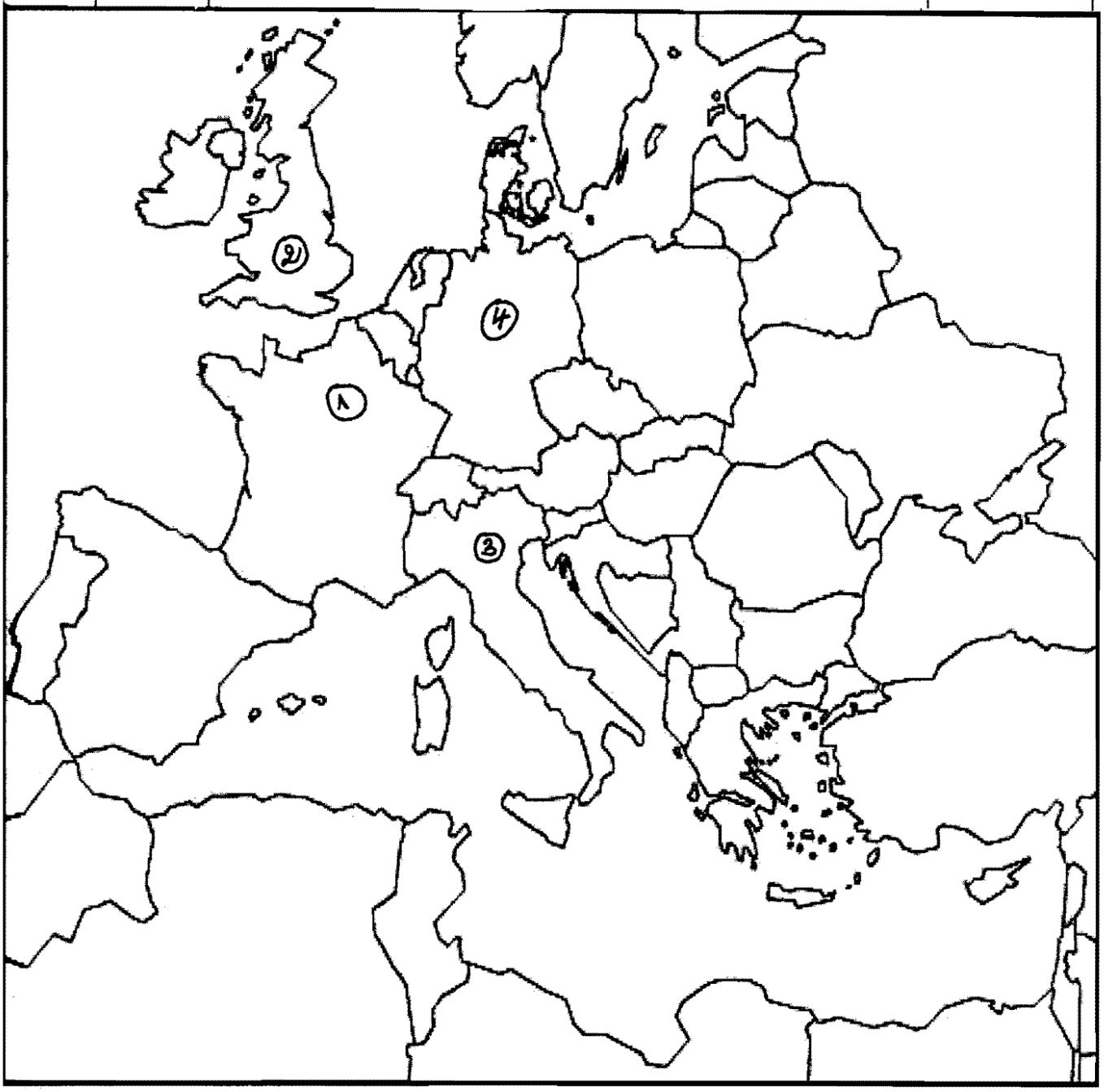

① باريس
② لندن
③ البعر
④ الروهر

76

محاور الموضوع	عناصر الإجابة	العلامة مجزأة	العلامة المجموع
	الموضـــــوع الثاني :		
	*- تاريخ		
	- الجزء الأول		
1- مفهوم المصطلحات	- **الستار الحديدي:** مصطلح استعمله رئيس الوزراء البريطاني ونستن تشرشل في خطابه بالو.م.أ يوم 1946/03/05 و يعني الحصار الذي فرضه الاتحاد السوفيتي على المناطق التي سيطر عليها في وسط وشرق أوروبا خلال الحرب.ع.2.	0.50	
	- **الامبريالية:** هي سياسة تقسيم العالم إلى مناطق نفوذ للدول الكبرى بهدف نهب و استغلال ثرواتها.....	0.50	
	- **التحرر السياسي:** تحقيق الاستقلال و الانعتاق وإقامة سلطة سياسية لكن دون التحكم التام في الشؤون الاقتصادية.	0.50	
	- **النظام الدولي الجديد:** النظام الذي أعلن عنه بوش بعد نهاية الحرب الباردة و الذي يقوم على هيمنة الو.م.أ (نظام أحادي القطبية).	0.50	
2- التعريف بالشخصيات:	- **جورج مارشال:** عسكري وسياسي أمريكي، وزير خارجية الو.م.أ في عهد ترومان، أقترن اسمه بمشروع مساعدات لإعادة بناء أوروبا في جوان 1947.	0.50	
	- **نيكيتا خروتشوف:** 1894-1971 الأمين العام للحزب الشيوعي سنة 1953 و رئيس الاتحاد السوفيتي عام 1956 لعب دورا كبيرا في انجاح مبادرة التعايش السلمي، أبعد من السلطة سنة 1964.	0.50	
	- **جوزيف بروز تيتو:** 1892-1980،سياسي يوغوسلافي قاد الحزب الشيوعي منذ1920 والمقاومة ضد النازية ،من مؤسسي حركة عدم الانحياز	0.50	
	- **هواري بومدين:** (محمد بوخروبة) 1932-1978: شارك في الثورة التحريرية، كان قائدا للولاية الخامسة من 1957 إلى 1960 ثم تولى قيادة أركان الجيش من 1960إلى 1962، بعد الاستقلال عين وزيرا للدفاع ثم نائبا لرئيس مجلس الوزراء سنة 1963، ثم رئيسا لمجلس الثورة والدولة 1965-1978 .	0.50	06
3- جدول الأحـــداث :	الحدث / تاريخه		
	قيام هيئة الأمم المتحدة / 1945/10/24	0.25	
	هجوم الشمال القسنطيني / 1955/08/20	0.25	
	مبدأ ترومان / 12 مارس 1947	0.25	
	إنشاء الكوميكون / 25 جانفي 1949	0.25	
4- التوقيع على الخريطة :	- الإنجاز .	0.75	
	- العنوان .	0.25	

77

محاور الموضوع	عناصر الإجابة	العلامة	
		مجزأة	المجموع

خريطة أزمات الحرب الباردة :

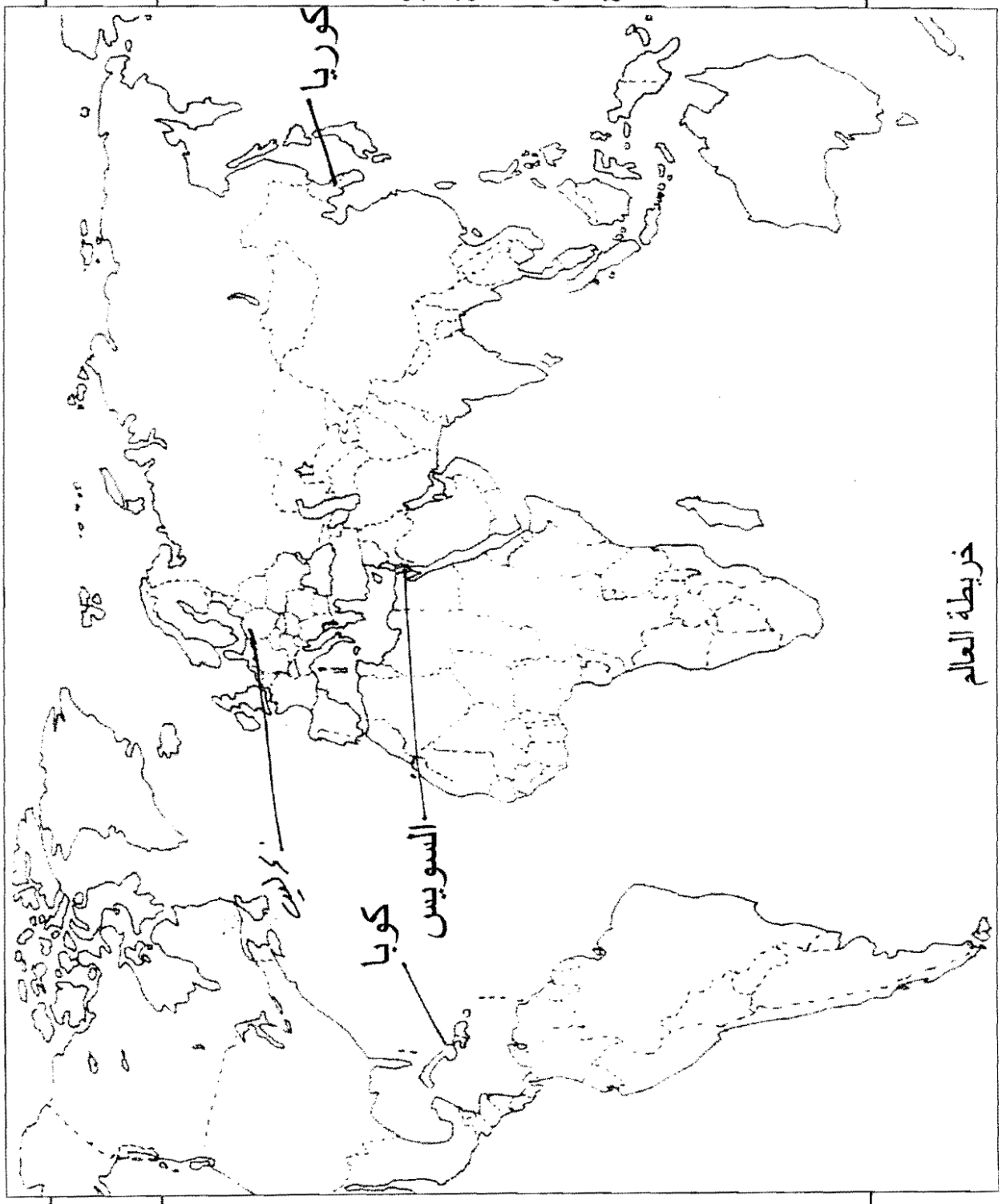

محاور الموضوع	عناصر الإجابة	العلامة مجزأة	العلامة المجموع
	الجزء الثاني :		
مقدمـــة	الحرب على بساط المفاوضات أعنف من حرب الجبال .	0.5	
العـــرض	1 – مبادئ جبهة التحرير الوطني في التفاوض :		
	– حق تقرير المصير .	0.50	
	– جبهة التحرير الوطني الممثل الشرعي والو حيد .	0.50	
	– وحدة الشعب الجزائري .	0.25	
	– وحدة التراب .	0.25	
	– التفاوض يفضي إلى وقف القتال	0.25	04
	2– أهداف فرنسا من التفاوض :		
	– المماطلة وربح الوقت .	0.50	
	– ممارسة الضغط .	0.25	
	– المساومة .	0.50	
الخاتمـــة	جبهة التحرير الوطني ربحت حرب المفاوضات مثلما ربحت حرب الجبال	0.5	
	*– جغرافيـــــــا		
	– الجزء الأول		
1– مفهوم المصطلحات :	*– التنمية البشرية: التنمية التي تأخذ بعين الاعتبار متطلبات البشر من صحة وتعليم ودخل....	0.50	
	*– التهيئة الإقليمية: عبارة عن تنظيم للمظاهر الجغرافية والاقتصادية على المستوى الإقليمي، أي بوضع خطة و معايير تأخذ بعين الاعتبار الظروف الطبيعية و الموارد البشرية والاقتصادية.	0.50	
	*– عالم الشمال: مصطلح اقتصادي للدلالة على الدول المتقدمة اقتصاديا وتكنولوجيا و الواقع معظمها إلى الشمال من دائرتي عرض 30° و 35° شمالا.	0.75	06
	*– الاستقطاب: الجذب و الإقبال بسبب الفوائد الممنوحة و الضمانات التي يوفرها تنوع مجالات الاستثمار.	0.50	
2– الاستخلاص من الوثيقة	معايير تصنيف الدولتين وفق مؤشر التنمية:		
	– أمل الحياة	0.50	
	– نسبة التمدرس (نسبة الأمية)	0.50	
	– الدخل الفردي الخام	0.50	
3 – التوقيع على الخريطة	–الإنجاز :	01.25	
	– العنوان :	0.50	
	– المفتاح :	0.50	

79

محاور الموضوع	عناصر الإجابة	العلامة مجزأة	العلامة المجموع
	الجزء الثاني :		
مقدمـــــة :	تملك الولايات المتحدة الأمريكية قوة اقتصادية وبشرية مكنتها من نفوذ جيوسياسي عالمي .	0.50	
	1- مظاهر الهيمنة الاقتصادية الأمريكية .:		
	- ضخامة الإنتاج الزراعي والصناعي الموجه للتصدير.	0.50	
	-اتساع نفوذ الشركات الأمريكية الكبرى(جنرال موتورز،إ.ب م)	0.50	
	- اعتماد الدولار كعملة مرجعية لمختلف العملات .	0.25	
	- امتلاكه لأكبر بورصة في العالم (وول ستريت).	0.25	04
العـــــــرض	2-أثر الهيمنة الأمريكية على الاقتصاد العالمي :		
	- سيطرة الشركات الأمريكية على منابع الثروة في العالم .		
	- تأثر اقتصاد العالم بالاقتصاد الأمريكي إيجابا وسلبا (الأزمة العالمية 1929 و 2008)	0.50	
	- ارتباط أسعار الموارد بنمو الاقتصاد الأمريكي .	0.50	
	- فرض توجه اقتصادي عالمي بمنظور أمريكي (النظام الاقتصادي العالمي) .	0.25 0.25	
الخاتمـــــة	قوة الاقتصاد الأمريكي مكنها من فرض نظام دولي سياسي واقتصادي جديد	0.50	

80

محاور الموضوع	عناصر الإجابة	العلامة	
		مجزأة	المجموع
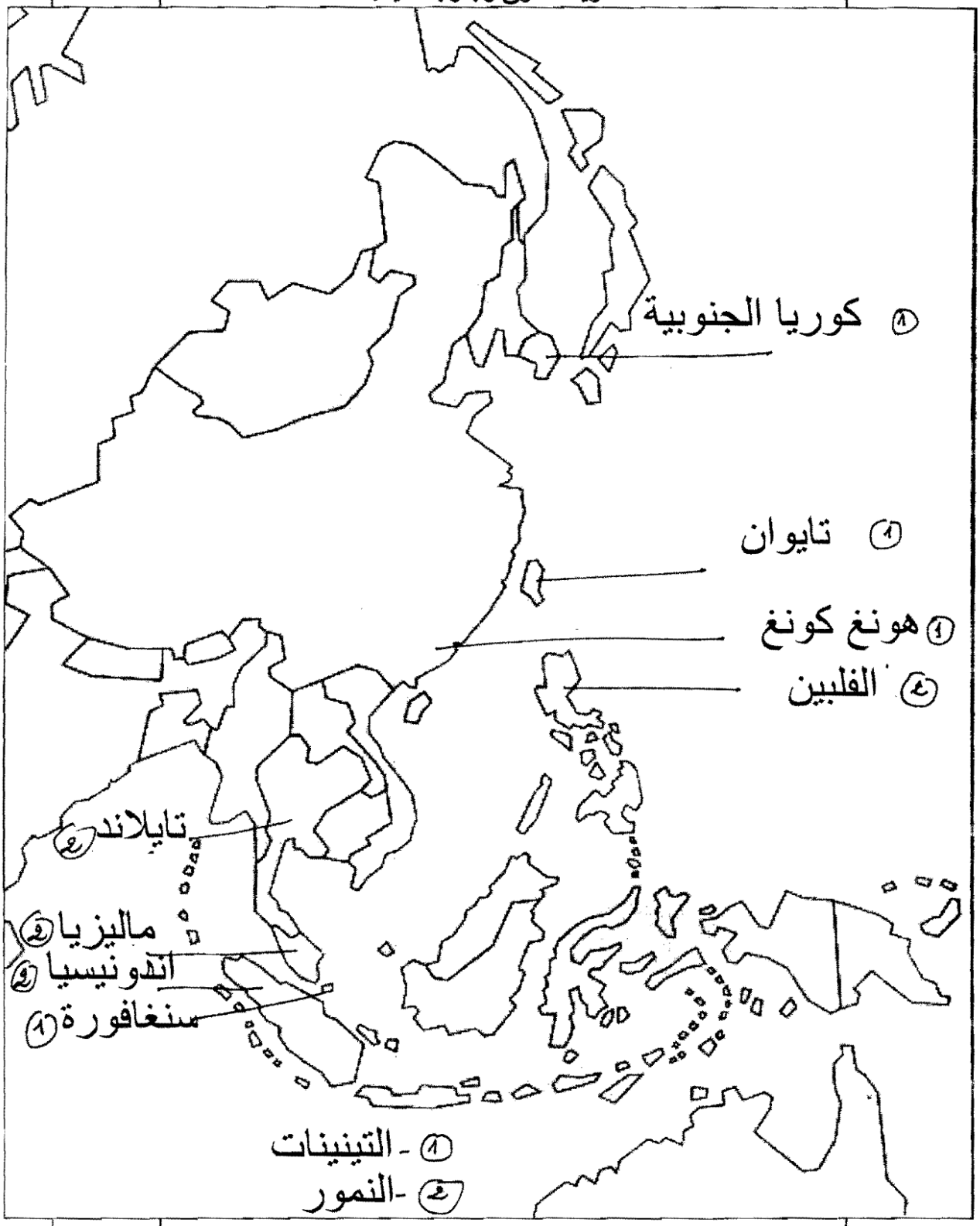
خريطة شرق وجنوب آسيا :